M4-KA01 さんすう 3けた×3けたの
ひっ算

なまえ

がつ　にち

かかった じかん　ふん
めやす 12ぷん

○の かず　／6

ひっ算で 計算しましょう。

①

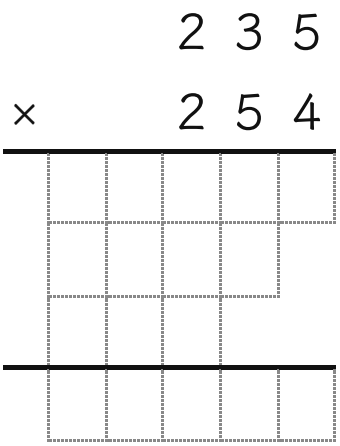

②

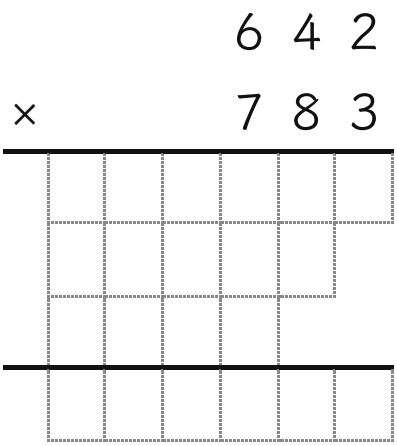

③

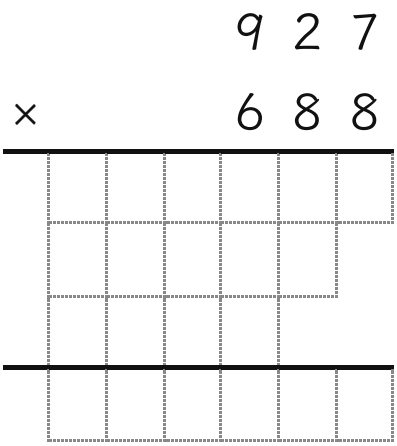

④

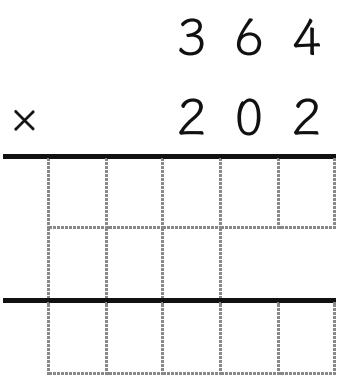

⑤

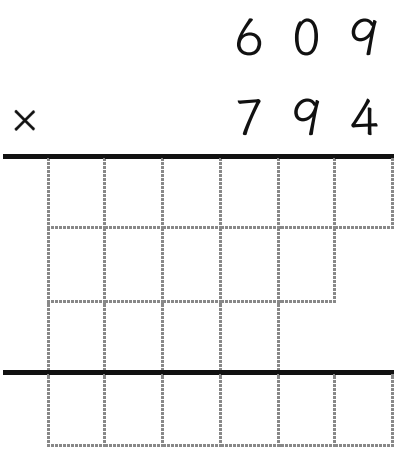

⑥

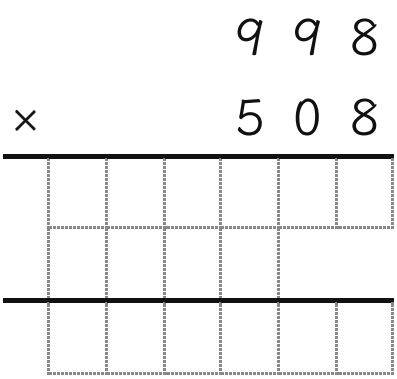

◎が 2まい つづいたら かけざんは ごうかく！　／　○ → もう1まい　／　△ → M3-KA07 に もどる

わからない ときは
ここを 見よう

digitalkodomo.jp 学びラボ　けいさんプリント

M4-KA01 さんすう 3けた×3けたの ひっ算

こたえ　M4-KA01-002

ひっ算で 計算しましょう。

①

		2	3	5
×		2	5	4
		9	4	0
	1	1	7	5
	4	7	0	
	5	9	6	9	0

②

			6	4	2	
×			7	8	3	
			1	9	2	6
		5	1	3	6	
	4	4	9	4		
	5	0	2	6	8	6

③

			9	2	7	
×			6	8	8	
			7	4	1	6
		7	4	1	6	
	5	5	6	2		
	6	3	7	7	7	6

④

		3	6	4	
×		2	0	2	
		7	2	8	
	7	2	8		
	7	3	5	2	8

⑤

			6	0	9	
×			7	9	4	
			2	4	3	6
		5	4	8	1	
	4	2	6	3		
	4	8	3	5	4	6

⑥

			9	9	8	
×			5	0	8	
			7	9	8	4
		4	9	9	0	
	5	0	6	9	8	4

おうちの方へ：つぎの1まいの えらびかた（めやす）

◎	6問以上 正解で、ひとりで止まらずにできた	同じ段をもう1枚。2枚つづけて◎なら次の段へ
○	5問くらい正解、または時間がかかった・少し手伝った	同じ段をもう1枚（別の番号）
△	半分くらい、または手が何度も止まる・いやがる	1つ前の段へ。らくにできる所から始めるのが近道です

めやすの時間は参考です。はからなくてもかまいません。番号（M4-KA01-002）を入れると、同じプリントと答えをいつでも出せます。

◎が 2まい つづいたら かけざんは ごうかく！　／　○ → もう1まい　／　△ → M3-KA07 に もどる

つぎの プリントは ここから

digitalkodomo.jp 学びラボ　けいさんプリント