M4-KA01 さんすう 3けた×3けたの
ひっ算

なまえ

がつ　にち

かかった じかん　ふん
めやす 12ぷん

○の かず　／6

ひっ算で 計算しましょう。

①

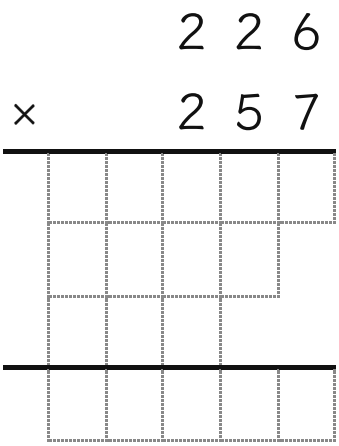

②

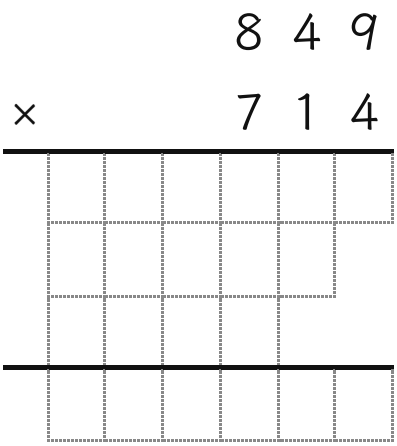

③

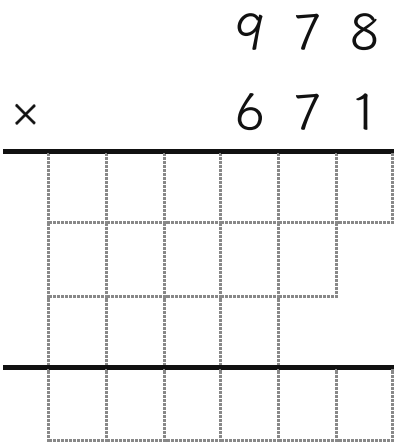

④

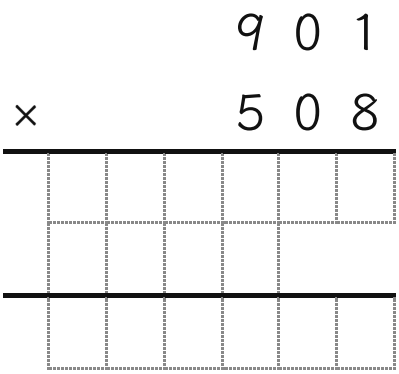

⑤

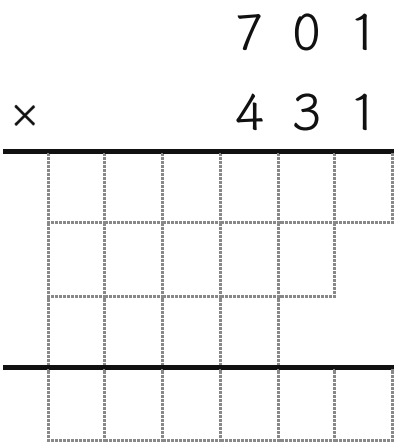

⑥

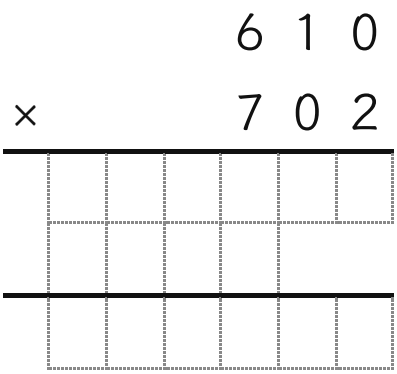

◎が 2まい つづいたら かけざんは ごうかく！　／　○ → もう1まい　／　△ → M3-KA07 に もどる

わからない ときは
ここを 見よう

digitalkodomo.jp 学びラボ　けいさんプリント

M4-KA01 さんすう 3けた×3けたの ひっ算

こたえ　M4-KA01-029

ひっ算で 計算しましょう。

①

		2	2	6
×		2	5	7
	1	5	8	2
1	1	3	0	
4	5	2		
5	8	0	8	2

②

		8	4	9	
×		7	1	4	
		3	3	9	6
		8	4	9	
5	9	4	3		
6	0	6	1	8	6

③

		9	7	8	
×		6	7	1	
		9	7	8	
	6	8	4	6	
5	8	6	8		
6	5	6	2	3	8

④

		9	0	1	
×		5	0	8	
		7	2	0	8
4	5	0	5		
4	5	7	7	0	8

⑤

		7	0	1	
×		4	3	1	
		7	0	1	
	2	1	0	3	
2	8	0	4		
3	0	2	1	3	1

⑥

		6	1	0	
×		7	0	2	
		1	2	2	0
4	2	7	0		
4	2	8	2	2	0

おうちの方へ：つぎの1まいの えらびかた（めやす）

◎	6問以上 正解で、ひとりで止まらずにできた	同じ段をもう1枚。2枚つづけて◎なら次の段へ
○	5問くらい正解、または時間がかかった・少し手伝った	同じ段をもう1枚（別の番号）
△	半分くらい、または手が何度も止まる・いやがる	1つ前の段へ。らくにできる所から始めるのが近道です

めやすの時間は参考です。はからなくてもかまいません。番号（M4-KA01-029）を入れると、同じプリントと答えをいつでも出せます。

◎が 2まい つづいたら かけざんは ごうかく！　／　○ → もう1まい　／　△ → M3-KA07 に もどる

つぎの プリントは ここから

digitalkodomo.jp 学びラボ　けいさんプリント