M4-KA01 さんすう 3けた×3けたの
ひっ算

なまえ

がつ　にち

かかった じかん　ふん
めやす 12ぷん

○の かず　／6

ひっ算で 計算しましょう。

①

$$\begin{array}{r} 119 \\ \times\ 801 \\ \hline \\ \\ \hline \\ \end{array}$$

②

$$\begin{array}{r} 360 \\ \times\ 877 \\ \hline \\ \\ \\ \hline \\ \end{array}$$

③

$$\begin{array}{r} 525 \\ \times\ 601 \\ \hline \\ \\ \hline \\ \end{array}$$

④

$$\begin{array}{r} 296 \\ \times\ 566 \\ \hline \\ \\ \\ \hline \\ \end{array}$$

⑤

$$\begin{array}{r} 752 \\ \times\ 414 \\ \hline \\ \\ \\ \hline \\ \end{array}$$

⑥

$$\begin{array}{r} 827 \\ \times\ 389 \\ \hline \\ \\ \\ \hline \\ \end{array}$$

◎が 2まい つづいたら かけざんは ごうかく！　／　○ → もう1まい　／　△ → M3-KA07 に もどる

わからない ときは
ここを 見よう

digitalkodomo.jp 学びラボ　けいさんプリント

M4-KA01 さんすう 3けた×3けたの
ひっ算

なまえ

がつ　にち

かかった じかん　ふん
めやす 12ぷん

○の かず　／6

ひっ算で 計算しましょう。

①

$$\begin{array}{r} 193 \\ \times\ 268 \\ \hline \\ \\ \\ \hline \\ \end{array}$$

②

$$\begin{array}{r} 777 \\ \times\ 738 \\ \hline \\ \\ \\ \hline \\ \end{array}$$

③

$$\begin{array}{r} 207 \\ \times\ 804 \\ \hline \\ \\ \hline \\ \end{array}$$

④

$$\begin{array}{r} 261 \\ \times\ 204 \\ \hline \\ \\ \hline \\ \end{array}$$

⑤

$$\begin{array}{r} 720 \\ \times\ 757 \\ \hline \\ \\ \\ \hline \\ \end{array}$$

⑥

$$\begin{array}{r} 459 \\ \times\ 844 \\ \hline \\ \\ \\ \hline \\ \end{array}$$

◎が 2まい つづいたら かけざんは ごうかく！　／　○ → もう1まい　／　△ → M3-KA07 に もどる

わからない ときは
ここを 見よう

M4-KA01 さんすう 3けた×3けたの
ひっ算

なまえ

がつ　にち

かかった じかん　ふん
めやす 12ぷん

○の かず　／6

ひっ算で 計算しましょう。

①

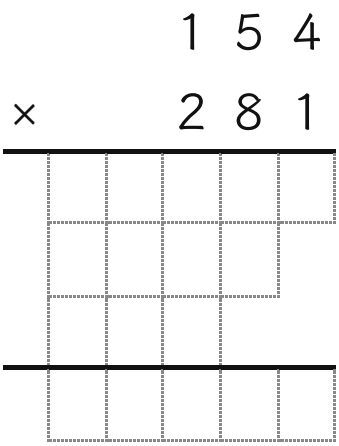

②

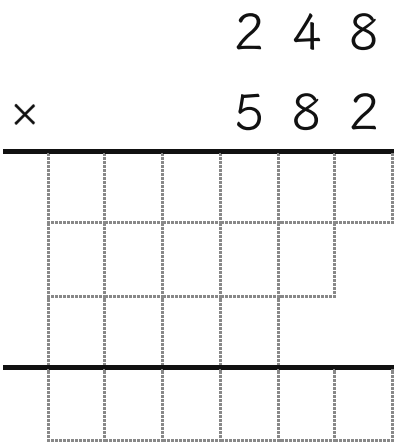

③

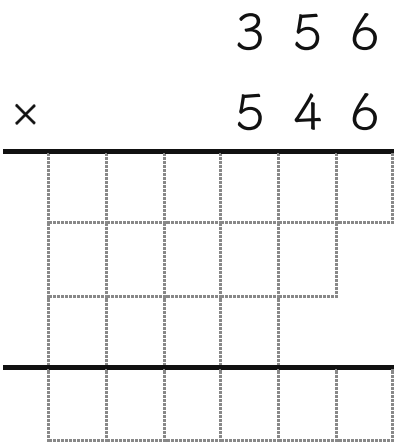

④

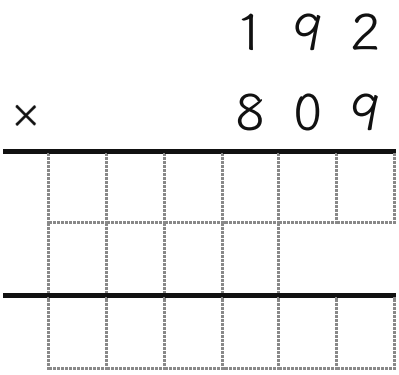

⑤

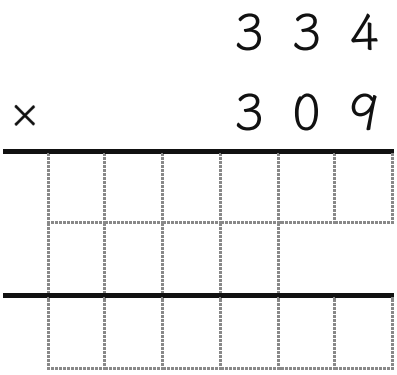

⑥

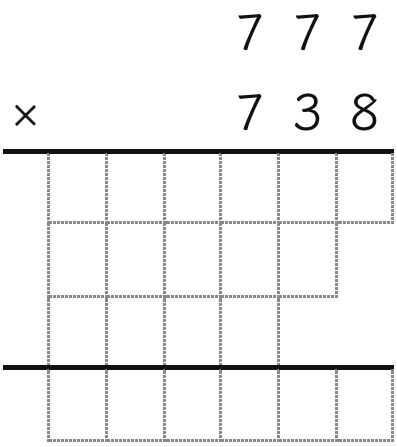

◎が 2まい つづいたら かけざんは ごうかく！　／　○ → もう1まい　／　△ → M3-KA07 に もどる

わからない ときは
ここを 見よう

digitalkodomo.jp 学びラボ　けいさんプリント

M4-KA01 さんすう 3けた×3けたの
ひっ算

なまえ

がつ　にち

かかった じかん　ふん
めやす 12ぷん

○の かず　／6

ひっ算で 計算しましょう。

①

$$\begin{array}{r} 167 \\ \times\ 106 \\ \hline \\ \\ \hline \\ \end{array}$$

②

$$\begin{array}{r} 592 \\ \times\ 135 \\ \hline \\ \\ \\ \hline \\ \end{array}$$

③

$$\begin{array}{r} 990 \\ \times\ 667 \\ \hline \\ \\ \\ \hline \\ \end{array}$$

④

$$\begin{array}{r} 568 \\ \times\ 143 \\ \hline \\ \\ \\ \hline \\ \end{array}$$

⑤

$$\begin{array}{r} 637 \\ \times\ 208 \\ \hline \\ \\ \\ \hline \\ \end{array}$$

⑥

$$\begin{array}{r} 738 \\ \times\ 751 \\ \hline \\ \\ \\ \hline \\ \end{array}$$

◎が 2まい つづいたら かけざんは ごうかく！　／　○ → もう1まい　／　△ → M3-KA07 に もどる

わからない ときは
ここを 見よう

digitalkodomo.jp 学びラボ　けいさんプリント

M4-KA01 さんすう 3けた×3けたの
ひっ算

なまえ

がつ　にち

かかった じかん　ふん
めやす 12ぷん

○の かず　／6

ひっ算で 計算しましょう。

①

$$\begin{array}{r} 452 \\ \times\ 205 \\ \hline \\ \\ \hline \\ \end{array}$$

②

$$\begin{array}{r} 968 \\ \times\ 342 \\ \hline \\ \\ \hline \\ \end{array}$$

③

$$\begin{array}{r} 219 \\ \times\ 924 \\ \hline \\ \\ \hline \\ \end{array}$$

④

$$\begin{array}{r} 636 \\ \times\ 785 \\ \hline \\ \\ \hline \\ \end{array}$$

⑤

$$\begin{array}{r} 301 \\ \times\ 902 \\ \hline \\ \\ \hline \\ \end{array}$$

⑥

$$\begin{array}{r} 539 \\ \times\ 485 \\ \hline \\ \\ \hline \\ \end{array}$$

◎が 2まい つづいたら かけざんは ごうかく！　／　○ → もう1まい　／　△ → M3-KA07 に もどる

わからない ときは
ここを 見よう

M4-KA01 さんすう 3けた×3けたの
ひっ算

なまえ

がつ　にち

かかった じかん　ふん
めやす 12ぷん

○の かず　／6

ひっ算で 計算しましょう。

①

$$\begin{array}{r} 163 \\ \times\ 278 \\ \hline \\ \\ \\ \hline \\ \end{array}$$

②

$$\begin{array}{r} 620 \\ \times\ 458 \\ \hline \\ \\ \\ \hline \\ \end{array}$$

③

$$\begin{array}{r} 138 \\ \times\ 951 \\ \hline \\ \\ \\ \hline \\ \end{array}$$

④

$$\begin{array}{r} 156 \\ \times\ 945 \\ \hline \\ \\ \\ \hline \\ \end{array}$$

⑤

$$\begin{array}{r} 689 \\ \times\ 902 \\ \hline \\ \\ \\ \hline \\ \end{array}$$

⑥

$$\begin{array}{r} 446 \\ \times\ 401 \\ \hline \\ \\ \\ \hline \\ \end{array}$$

◎が 2まい つづいたら かけざんは ごうかく！　／　○ → もう1まい　／　△ → M3-KA07 に もどる

わからない ときは
ここを 見よう

digitalkodomo.jp 学びラボ　けいさんプリント

M4-KA01 さんすう 3けた×3けたの
ひっ算

なまえ

がつ　にち

かかった じかん　ふん
めやす 12ぷん

○の かず　／6

ひっ算で 計算しましょう。

①

$$\begin{array}{r} 449 \\ \times\ 206 \\ \hline \\ \\ \hline \\ \end{array}$$

②

$$\begin{array}{r} 993 \\ \times\ 666 \\ \hline \\ \\ \hline \\ \end{array}$$

③

$$\begin{array}{r} 461 \\ \times\ 511 \\ \hline \\ \\ \hline \\ \end{array}$$

④

$$\begin{array}{r} 489 \\ \times\ 904 \\ \hline \\ \\ \hline \\ \end{array}$$

⑤

$$\begin{array}{r} 219 \\ \times\ 924 \\ \hline \\ \\ \hline \\ \end{array}$$

⑥

$$\begin{array}{r} 392 \\ \times\ 534 \\ \hline \\ \\ \hline \\ \end{array}$$

◎が 2まい つづいたら かけざんは ごうかく！　／　○ → もう1まい　／　△ → M3-KA07 に もどる

わからない ときは
ここを 見よう

digitalkodomo.jp 学びラボ　けいさんプリント

M4-KA01 さんすう 3けた×3けたの
ひっ算

なまえ

がつ　にち

かかった じかん　ふん
めやす 12ぷん

○の かず　／6

ひっ算で 計算しましょう。

①

$$\begin{array}{r} 164 \\ \times\ 204 \\ \hline \\ \\ \hline \\ \end{array}$$

②

$$\begin{array}{r} 592 \\ \times\ 135 \\ \hline \\ \\ \\ \hline \\ \end{array}$$

③

$$\begin{array}{r} 108 \\ \times\ 961 \\ \hline \\ \\ \\ \hline \\ \end{array}$$

④

$$\begin{array}{r} 919 \\ \times\ 405 \\ \hline \\ \\ \hline \\ \end{array}$$

⑤

$$\begin{array}{r} 168 \\ \times\ 941 \\ \hline \\ \\ \\ \hline \\ \end{array}$$

⑥

$$\begin{array}{r} 581 \\ \times\ 471 \\ \hline \\ \\ \\ \hline \\ \end{array}$$

◎が 2まい つづいたら かけざんは ごうかく！　／　○ → もう1まい　／　△ → M3-KA07 に もどる

わからない ときは
ここを 見よう

digitalkodomo.jp 学びラボ　けいさんプリント

M4-KA01 さんすう 3けた×3けたの
ひっ算

なまえ

がつ　にち

かかった じかん　ふん
めやす 12ぷん

○の かず　／6

ひっ算で 計算しましょう。

①

$$\begin{array}{r} 424 \\ \times\ 191 \\ \hline \\ \\ \\ \hline \\ \end{array}$$

②

$$\begin{array}{r} 466 \\ \times\ 177 \\ \hline \\ \\ \\ \hline \\ \end{array}$$

③

$$\begin{array}{r} 375 \\ \times\ 872 \\ \hline \\ \\ \\ \hline \\ \end{array}$$

④

$$\begin{array}{r} 858 \\ \times\ 102 \\ \hline \\ \\ \\ \hline \\ \end{array}$$

⑤

$$\begin{array}{r} 152 \\ \times\ 614 \\ \hline \\ \\ \\ \hline \\ \end{array}$$

⑥

$$\begin{array}{r} 389 \\ \times\ 808 \\ \hline \\ \\ \\ \hline \\ \end{array}$$

◎が 2まい つづいたら かけざんは ごうかく！　／　○ → もう1まい　／　△ → M3-KA07 に もどる

わからない ときは
ここを 見よう

digitalkodomo.jp 学びラボ　けいさんプリント

M4-KA01 さんすう 3けた×3けたの
ひっ算

なまえ

がつ　にち

かかった じかん　ふん
めやす 12ぷん

○の かず　／6

ひっ算で 計算しましょう。

①

$$\begin{array}{r} 349 \\ \times\ 207 \\ \hline \\ \\ \hline \\ \end{array}$$

②

$$\begin{array}{r} 534 \\ \times\ 819 \\ \hline \\ \\ \\ \hline \\ \end{array}$$

③

$$\begin{array}{r} 340 \\ \times\ 219 \\ \hline \\ \\ \\ \hline \\ \end{array}$$

④

$$\begin{array}{r} 332 \\ \times\ 554 \\ \hline \\ \\ \\ \hline \\ \end{array}$$

⑤

$$\begin{array}{r} 422 \\ \times\ 409 \\ \hline \\ \\ \\ \hline \\ \end{array}$$

⑥

$$\begin{array}{r} 269 \\ \times\ 575 \\ \hline \\ \\ \\ \hline \\ \end{array}$$

◎が 2まい つづいたら かけざんは ごうかく！　／　○ → もう1まい　／　△ → M3-KA07 に もどる

わからない ときは
ここを 見よう

digitalkodomo.jp 学びラボ　けいさんプリント

M4-KA01 さんすう 3けた×3けたの ひっ算

こたえ　M4-KA01-031

ひっ算で 計算しましょう。

①

$$\begin{array}{r} 119 \\ \times\ 801 \\ \hline 119 \\ 952 \\ \hline 95319 \end{array}$$

②

$$\begin{array}{r} 360 \\ \times\ 877 \\ \hline 2520 \\ 2520 \\ 2880 \\ \hline 315720 \end{array}$$

③

$$\begin{array}{r} 525 \\ \times\ 601 \\ \hline 525 \\ 3150 \\ \hline 315525 \end{array}$$

④

$$\begin{array}{r} 296 \\ \times\ 566 \\ \hline 1776 \\ 1776 \\ 1480 \\ \hline 167536 \end{array}$$

⑤

$$\begin{array}{r} 752 \\ \times\ 414 \\ \hline 3008 \\ 752 \\ 3008 \\ \hline 311328 \end{array}$$

⑥

$$\begin{array}{r} 827 \\ \times\ 389 \\ \hline 7443 \\ 6616 \\ 2481 \\ \hline 321703 \end{array}$$

おうちの方へ：つぎの1まいの えらびかた（めやす）

◎	6問以上 正解で、ひとりで止まらずにできた	同じ段をもう1枚。2枚つづけて◎なら次の段へ
○	5問くらい正解、または時間がかかった・少し手伝った	同じ段をもう1枚（別の番号）
△	半分くらい、または手が何度も止まる・いやがる	1つ前の段へ。らくにできる所から始めるのが近道です

めやすの時間は参考です。はからなくてもかまいません。番号（M4-KA01-031）を入れると、同じプリントと答えをいつでも出せます。

◎が 2まい つづいたら かけざんは ごうかく！　／　○ → もう1まい　／　△ → M3-KA07 に もどる

つぎの プリントは ここから

digitalkodomo.jp 学びラボ　けいさんプリント

M4-KA01 さんすう 3けた×3けたの ひっ算

こたえ　M4-KA01-032

ひっ算で 計算しましょう。

①

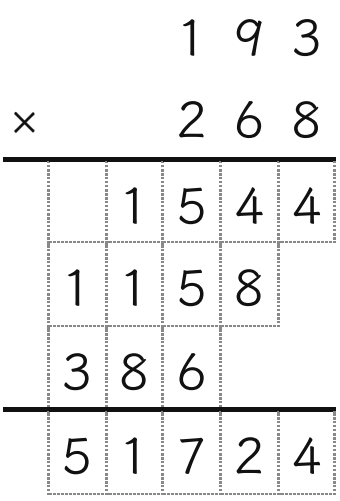

②

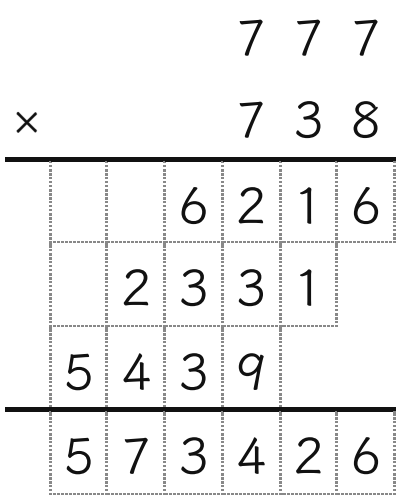

③

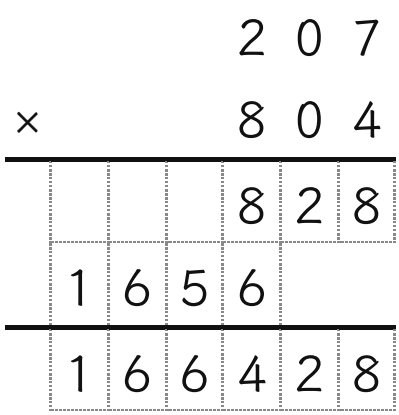

④

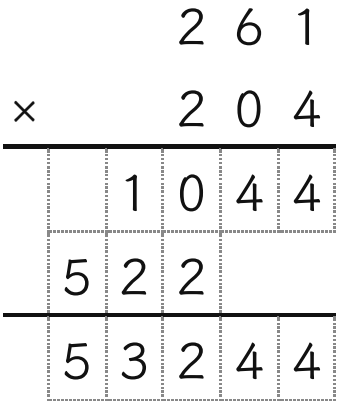

⑤

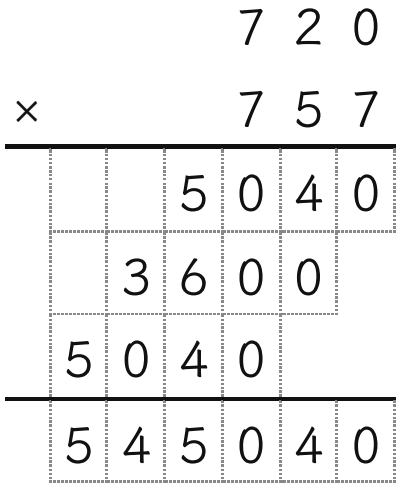

⑥

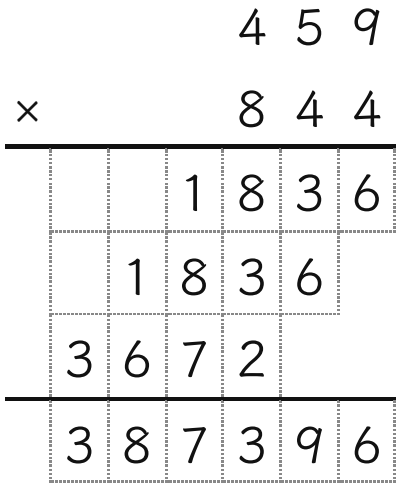

おうちの方へ：つぎの1まいの えらびかた（めやす）

◎	6問以上 正解で、ひとりで止まらずにできた	同じ段をもう1枚。2枚つづけて◎なら次の段へ
○	5問くらい正解、または時間がかかった・少し手伝った	同じ段をもう1枚（別の番号）
△	半分くらい、または手が何度も止まる・いやがる	1つ前の段へ。らくにできる所から始めるのが近道です

めやすの時間は参考です。はからなくてもかまいません。番号（M4-KA01-032）を入れると、同じプリントと答えをいつでも出せます。

◎が 2まい つづいたら かけざんは ごうかく！　／　○ → もう1まい　／　△ → M3-KA07 に もどる

つぎの プリントは ここから

digitalkodomo.jp 学びラボ　けいさんプリント

M4-KA01 さんすう 3けた×3けたの
ひっ算

こたえ　M4-KA01-033

ひっ算で 計算しましょう。

①

		1	5	4	
×		2	8	1	
		1	5	4	
	1	2	3	2	
	3	0	8		
	4	3	2	7	4

②

		2	4	8	
×		5	8	2	
			4	9	6
	1	9	8	4	
1	2	4	0		
1	4	4	3	3	6

③

		3	5	6	
×		5	4	6	
		2	1	3	6
	1	4	2	4	
1	7	8	0		
1	9	4	3	7	6

④

		1	9	2	
×		8	0	9	
		1	7	2	8
1	5	3	6		
1	5	5	3	2	8

⑤

		3	3	4	
×		3	0	9	
		3	0	0	6
1	0	0	2		
1	0	3	2	0	6

⑥

		7	7	7	
×		7	3	8	
		6	2	1	6
	2	3	3	1	
5	4	3	9		
5	7	3	4	2	6

おうちの方へ：つぎの1まいの えらびかた（めやす）

◎	6問以上 正解で、ひとりで止まらずにできた	同じ段をもう1枚。2枚つづけて◎なら次の段へ
○	5問くらい正解、または時間がかかった・少し手伝った	同じ段をもう1枚（別の番号）
△	半分くらい、または手が何度も止まる・いやがる	1つ前の段へ。らくにできる所から始めるのが近道です

めやすの時間は参考です。はからなくてもかまいません。番号（M4-KA01-033）を入れると、同じプリントと答えをいつでも出せます。

◎が 2まい つづいたら かけざんは ごうかく！　／　○ → もう1まい　／　△ → M3-KA07 に もどる

つぎの プリントは ここから

digitalkodomo.jp 学びラボ　けいさんプリント

M4-KA01 さんすう 3けた×3けたの ひっ算

こたえ　M4-KA01-034

ひっ算で 計算しましょう。

①

$$\begin{array}{r} 167 \\ \times\ 106 \\ \hline 1002 \\ 167 \\ \hline 17702 \end{array}$$

②

$$\begin{array}{r} 592 \\ \times\ 135 \\ \hline 2960 \\ 1776 \\ 592 \\ \hline 79920 \end{array}$$

③

$$\begin{array}{r} 990 \\ \times\ 667 \\ \hline 6930 \\ 5940 \\ 5940 \\ \hline 660330 \end{array}$$

④

$$\begin{array}{r} 568 \\ \times\ 143 \\ \hline 1704 \\ 2272 \\ 568 \\ \hline 81224 \end{array}$$

⑤

$$\begin{array}{r} 637 \\ \times\ 208 \\ \hline 5096 \\ 1274 \\ \hline 132496 \end{array}$$

⑥

$$\begin{array}{r} 738 \\ \times\ 751 \\ \hline 738 \\ 3690 \\ 5166 \\ \hline 554238 \end{array}$$

おうちの方へ：つぎの1まいの えらびかた（めやす）

◎	6問以上 正解で、ひとりで止まらずにできた	同じ段をもう1枚。2枚つづけて◎なら次の段へ
○	5問くらい正解、または時間がかかった・少し手伝った	同じ段をもう1枚（別の番号）
△	半分くらい、または手が何度も止まる・いやがる	1つ前の段へ。らくにできる所から始めるのが近道です

めやすの時間は参考です。はからなくてもかまいません。番号（M4-KA01-034）を入れると、同じプリントと答えをいつでも出せます。

◎が 2まい つづいたら かけざんは ごうかく！　／　○ → もう1まい　／　△ → M3-KA07 に もどる

つぎの プリントは ここから

digitalkodomo.jp 学びラボ　けいさんプリント

M4-KA01 さんすう 3けた×3けたの ひっ算

こたえ　M4-KA01-035

ひっ算で 計算しましょう。

①

		4	5	2
×		2	0	5
	2	2	6	0
9	0	4		
9	2	6	6	0

②

		9	6	8	
×		3	4	2	
		1	9	3	6
	3	8	7	2	
2	9	0	4		
3	3	1	0	5	6

③

		2	1	9	
×		9	2	4	
			8	7	6
		4	3	8	
1	9	7	1		
2	0	2	3	5	6

④

		6	3	6	
×		7	8	5	
		3	1	8	0
	5	0	8	8	
4	4	5	2		
4	9	9	2	6	0

⑤

		3	0	1	
×		9	0	2	
			6	0	2
2	7	0	9		
2	7	1	5	0	2

⑥

		5	3	9	
×		4	8	5	
		2	6	9	5
	4	3	1	2	
2	1	5	6		
2	6	1	4	1	5

おうちの方へ：つぎの1まいの えらびかた（めやす）

◎	6問以上 正解で、ひとりで止まらずにできた	同じ段をもう1枚。2枚つづけて◎なら次の段へ
○	5問くらい正解、または時間がかかった・少し手伝った	同じ段をもう1枚（別の番号）
△	半分くらい、または手が何度も止まる・いやがる	1つ前の段へ。らくにできる所から始めるのが近道です

めやすの時間は参考です。はからなくてもかまいません。番号（M4-KA01-035）を入れると、同じプリントと答えをいつでも出せます。

◎が 2まい つづいたら かけざんは ごうかく！　／　○ → もう1まい　／　△ → M3-KA07 に もどる

つぎの プリントは ここから

digitalkodomo.jp 学びラボ　けいさんプリント

M4-KA01 さんすう 3けた×3けたの ひっ算

こたえ　M4-KA01-036

ひっ算で 計算しましょう。

①

		1	6	3	
×		2	7	8	
		1	3	0	4
	1	1	4	1	
	3	2	6		
	4	5	3	1	4

②

		6	2	0	
×		4	5	8	
		4	9	6	0
	3	1	0	0	
2	4	8	0		
2	8	3	9	6	0

③

		1	3	8	
×		9	5	1	
		1	3	8	
	6	9	0		
1	2	4	2		
1	3	1	2	3	8

④

		1	5	6	
×		9	4	5	
		7	8	0	
	6	2	4		
1	4	0	4		
1	4	7	4	2	0

⑤

		6	8	9	
×		9	0	2	
		1	3	7	8
6	2	0	1		
6	2	1	4	7	8

⑥

		4	4	6	
×		4	0	1	
		4	4	6	
1	7	8	4		
1	7	8	8	4	6

おうちの方へ：つぎの1まいの えらびかた（めやす）

◎	6問以上 正解で、ひとりで止まらずにできた	同じ段をもう1枚。2枚つづけて◎なら次の段へ
○	5問くらい正解、または時間がかかった・少し手伝った	同じ段をもう1枚（別の番号）
△	半分くらい、または手が何度も止まる・いやがる	1つ前の段へ。らくにできる所から始めるのが近道です

めやすの時間は参考です。はからなくてもかまいません。番号（M4-KA01-036）を入れると、同じプリントと答えをいつでも出せます。

◎が 2まい つづいたら かけざんは ごうかく！　／　○ → もう1まい　／　△ → M3-KA07 に もどる

つぎの プリントは ここから

digitalkodomo.jp 学びラボ　けいさんプリント

M4-KA01 さんすう 3けた×3けたの ひっ算

こたえ　M4-KA01-037

ひっ算で 計算しましょう。

①

$$\begin{array}{r} 449 \\ \times\ 206 \\ \hline 2694 \\ 898 \\ \hline 92494 \end{array}$$

②

$$\begin{array}{r} 993 \\ \times\ 666 \\ \hline 5958 \\ 5958 \\ 5958 \\ \hline 661338 \end{array}$$

③

$$\begin{array}{r} 461 \\ \times\ 511 \\ \hline 461 \\ 461 \\ 2305 \\ \hline 235571 \end{array}$$

④

$$\begin{array}{r} 489 \\ \times\ 904 \\ \hline 1956 \\ 4401 \\ \hline 442056 \end{array}$$

⑤

$$\begin{array}{r} 219 \\ \times\ 924 \\ \hline 876 \\ 438 \\ 1971 \\ \hline 202356 \end{array}$$

⑥

$$\begin{array}{r} 392 \\ \times\ 534 \\ \hline 1568 \\ 1176 \\ 1960 \\ \hline 209328 \end{array}$$

おうちの方へ：つぎの1まいの えらびかた（めやす）

◎	6問以上 正解で、ひとりで止まらずにできた	同じ段をもう1枚。2枚つづけて◎なら次の段へ
○	5問くらい正解、または時間がかかった・少し手伝った	同じ段をもう1枚（別の番号）
△	半分くらい、または手が何度も止まる・いやがる	1つ前の段へ。らくにできる所から始めるのが近道です

めやすの時間は参考です。はからなくてもかまいません。番号（M4-KA01-037）を入れると、同じプリントと答えをいつでも出せます。

◎が 2まい つづいたら かけざんは ごうかく！　／　○ → もう1まい　／　△ → M3-KA07 に もどる

つぎの プリントは ここから

digitalkodomo.jp 学びラボ　けいさんプリント

M4-KA01 さんすう 3けた×3けたの
ひっ算

こたえ　M4-KA01-038

ひっ算で 計算しましょう。

①

$$\begin{array}{r} 164 \\ \times\ 204 \\ \hline 656 \\ 328 \\ \hline 33456 \end{array}$$

②

$$\begin{array}{r} 592 \\ \times\ 135 \\ \hline 2960 \\ 1776 \\ 592 \\ \hline 79920 \end{array}$$

③

$$\begin{array}{r} 108 \\ \times\ 961 \\ \hline 108 \\ 648 \\ 972 \\ \hline 103788 \end{array}$$

④

$$\begin{array}{r} 919 \\ \times\ 405 \\ \hline 4595 \\ 3676 \\ \hline 372195 \end{array}$$

⑤

$$\begin{array}{r} 168 \\ \times\ 941 \\ \hline 168 \\ 672 \\ 1512 \\ \hline 158088 \end{array}$$

⑥

$$\begin{array}{r} 581 \\ \times\ 471 \\ \hline 581 \\ 4067 \\ 2324 \\ \hline 273651 \end{array}$$

おうちの方へ：つぎの1まいの えらびかた（めやす）

◎	6問以上 正解で、ひとりで止まらずにできた	同じ段をもう1枚。2枚つづけて◎なら次の段へ
○	5問くらい正解、または時間がかかった・少し手伝った	同じ段をもう1枚（別の番号）
△	半分くらい、または手が何度も止まる・いやがる	1つ前の段へ。らくにできる所から始めるのが近道です

めやすの時間は参考です。はからなくてもかまいません。番号（M4-KA01-038）を入れると、同じプリントと答えをいつでも出せます。

◎が 2まい つづいたら かけざんは ごうかく！　／　○ → もう1まい　／　△ → M3-KA07 に もどる

つぎの プリントは ここから

digitalkodomo.jp 学びラボ　けいさんプリント

M4-KA01 さんすう 3けた×3けたの ひっ算

こたえ　M4-KA01-039

ひっ算で 計算しましょう。

①

$$\begin{array}{r} 424 \\ \times\ 191 \\ \hline 424 \\ 3816 \\ 424 \\ \hline 80984 \end{array}$$

②

$$\begin{array}{r} 466 \\ \times\ 177 \\ \hline 3262 \\ 3262 \\ 466 \\ \hline 82482 \end{array}$$

③

$$\begin{array}{r} 375 \\ \times\ 872 \\ \hline 750 \\ 2625 \\ 3000 \\ \hline 327000 \end{array}$$

④

$$\begin{array}{r} 858 \\ \times\ 102 \\ \hline 1716 \\ 858 \\ \hline 87516 \end{array}$$

⑤

$$\begin{array}{r} 152 \\ \times\ 614 \\ \hline 608 \\ 152 \\ 912 \\ \hline 93328 \end{array}$$

⑥

$$\begin{array}{r} 389 \\ \times\ 808 \\ \hline 3112 \\ 3112 \\ \hline 314312 \end{array}$$

おうちの方へ：つぎの1まいの えらびかた（めやす）

◎	6問以上 正解で、ひとりで止まらずにできた	同じ段をもう1枚。2枚つづけて◎なら次の段へ
○	5問くらい正解、または時間がかかった・少し手伝った	同じ段をもう1枚（別の番号）
△	半分くらい、または手が何度も止まる・いやがる	1つ前の段へ。らくにできる所から始めるのが近道です

めやすの時間は参考です。はからなくてもかまいません。番号（M4-KA01-039）を入れると、同じプリントと答えをいつでも出せます。

◎が 2まい つづいたら かけざんは ごうかく！　／　○ → もう1まい　／　△ → M3-KA07 に もどる

つぎの プリントは ここから

digitalkodomo.jp 学びラボ　けいさんプリント

M4-KA01 さんすう 3けた×3けたの
ひっ算

こたえ　M4-KA01-040

ひっ算で 計算しましょう。

①

		3	4	9
×		2	0	7
	2	4	4	3
6	9	8		
7	2	2	4	3

②

		5	3	4	
×		8	1	9	
		4	8	0	6
		5	3	4	
4	2	7	2		
4	3	7	3	4	6

③

	3	4	0	
×	2	1	9	
	3	0	6	0
	3	4	0	
6	8	0		
7	4	4	6	0

④

		3	3	2	
×		5	5	4	
		1	3	2	8
	1	6	6	0	
1	6	6	0		
1	8	3	9	2	8

⑤

		4	2	2	
×		4	0	9	
		3	7	9	8
1	6	8	8		
1	7	2	5	9	8

⑥

		2	6	9	
×		5	7	5	
		1	3	4	5
	1	8	8	3	
1	3	4	5		
1	5	4	6	7	5

おうちの方へ：つぎの1まいの えらびかた（めやす）

◎	6問以上 正解で、ひとりで止まらずにできた	同じ段をもう1枚。2枚つづけて◎なら次の段へ
○	5問くらい正解、または時間がかかった・少し手伝った	同じ段をもう1枚（別の番号）
△	半分くらい、または手が何度も止まる・いやがる	1つ前の段へ。らくにできる所から始めるのが近道です

めやすの時間は参考です。はからなくてもかまいません。番号（M4-KA01-040）を入れると、同じプリントと答えをいつでも出せます。

◎が 2まい つづいたら かけざんは ごうかく！　／　○ → もう1まい　／　△ → M3-KA07 に もどる

つぎの プリントは ここから

digitalkodomo.jp 学びラボ　けいさんプリント