M4-KA01 さんすう 3けた×3けたの
ひっ算

なまえ

がつ　にち

かかった じかん　ふん
めやす 12ぷん

○の かず　／6

ひっ算で 計算しましょう。

①

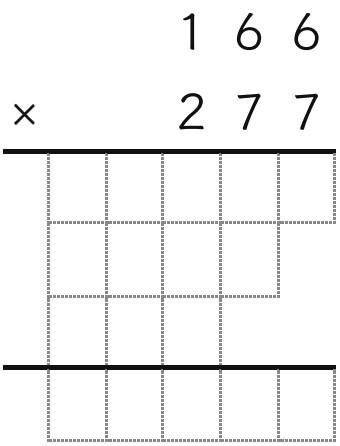

②

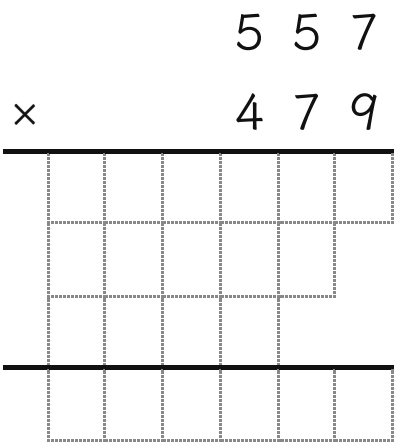

③

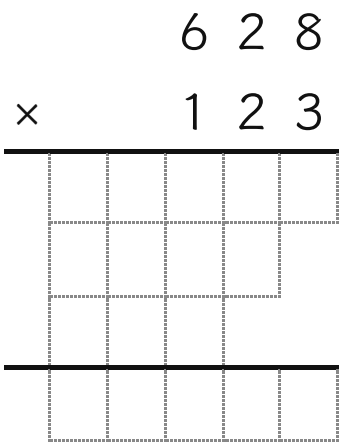

④

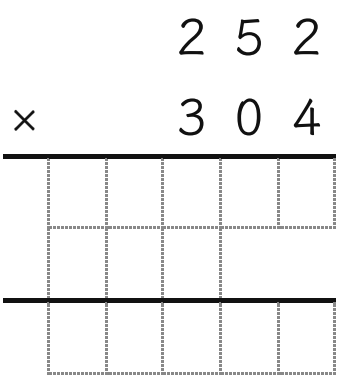

⑤

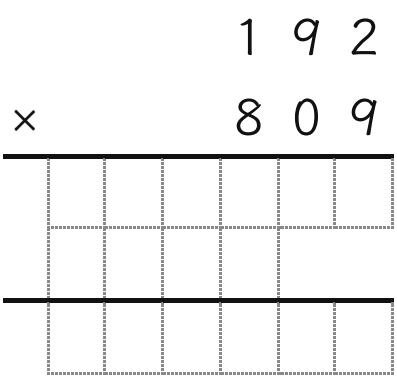

⑥

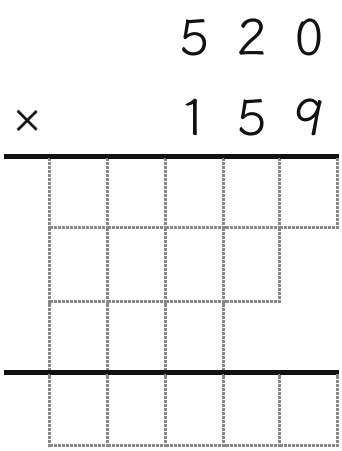

◎が 2まい つづいたら かけざんは ごうかく！　／　○ → もう1まい　／　△ → M3-KA07 に もどる

わからない ときは
ここを 見よう

digitalkodomo.jp 学びラボ　けいさんプリント

M4-KA01 さんすう 3けた×3けたの ひっ算

こたえ　M4-KA01-047

ひっ算で 計算しましょう。

①

		1	6	6
×		2	7	7
	1	1	6	2
1	1	6	2	
3	3	2		
4	5	9	8	2

②

		5	5	7	
×		4	7	9	
		5	0	1	3
	3	8	9	9	
2	2	2	8		
2	6	6	8	0	3

③

	6	2	8	
×	1	2	3	
	1	8	8	4
1	2	5	6	
6	2	8		
7	7	2	4	4

④

	2	5	2	
×	3	0	4	
	1	0	0	8
7	5	6		
7	6	6	0	8

⑤

		1	9	2	
×		8	0	9	
		1	7	2	8
	1	5	3	6	
1	5	5	3	2	8

⑥

	5	2	0	
×	1	5	9	
	4	6	8	0
2	6	0	0	
5	2	0		
8	2	6	8	0

おうちの方へ：つぎの1まいの えらびかた（めやす）

◎	6問以上 正解で、ひとりで止まらずにできた	同じ段をもう1枚。2枚つづけて◎なら次の段へ
○	5問くらい正解、または時間がかかった・少し手伝った	同じ段をもう1枚（別の番号）
△	半分くらい、または手が何度も止まる・いやがる	1つ前の段へ。らくにできる所から始めるのが近道です

めやすの時間は参考です。はからなくてもかまいません。番号（M4-KA01-047）を入れると、同じプリントと答えをいつでも出せます。

◎が 2まい つづいたら かけざんは ごうかく！　／　○ → もう1まい　／　△ → M3-KA07 に もどる

つぎの プリントは ここから

digitalkodomo.jp 学びラボ　けいさんプリント