M4-KA01 さんすう 3けた×3けたの
ひっ算

なまえ

がつ　にち

かかった じかん　ふん
めやす 12ぷん

○の かず　／6

ひっ算で 計算しましょう。

①

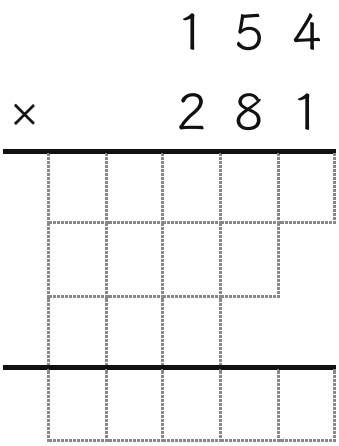

②

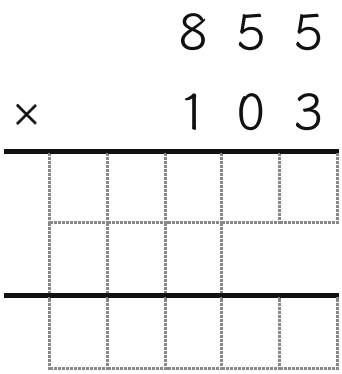

③

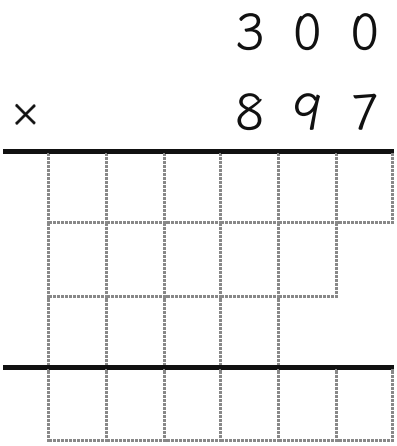

④

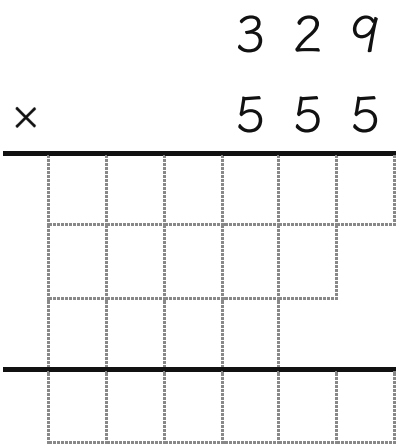

⑤

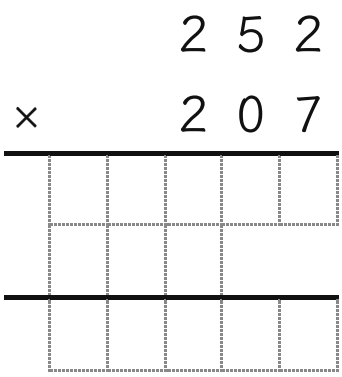

⑥

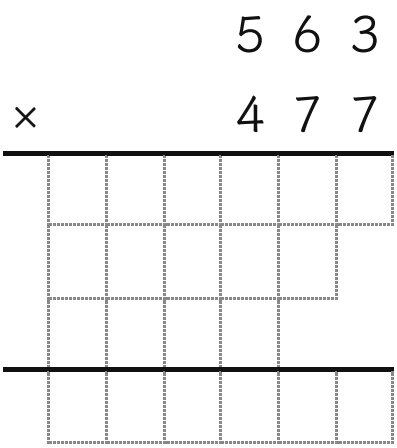

◎が 2まい つづいたら かけざんは ごうかく！　／　○ → もう1まい　／　△ → M3-KA07 に もどる

わからない ときは
ここを 見よう

M4-KA01 さんすう 3けた×3けたの ひっ算

こたえ　M4-KA01-055

ひっ算で 計算しましょう。

①

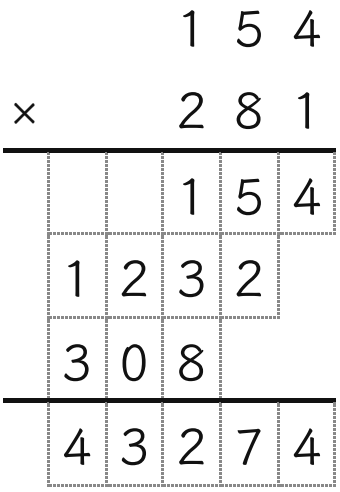

②

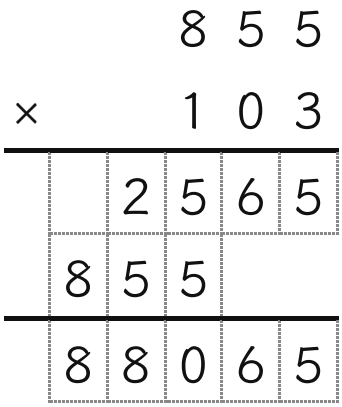

③

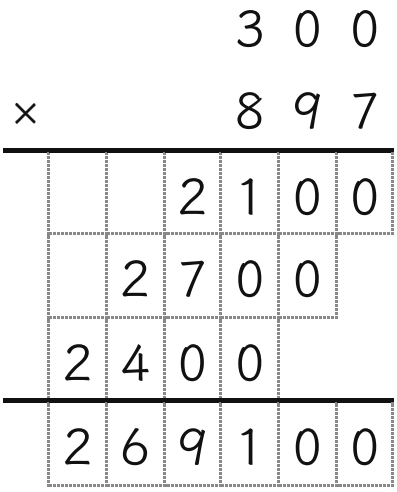

④

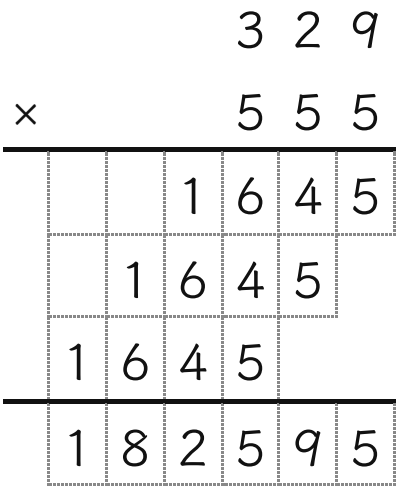

⑤

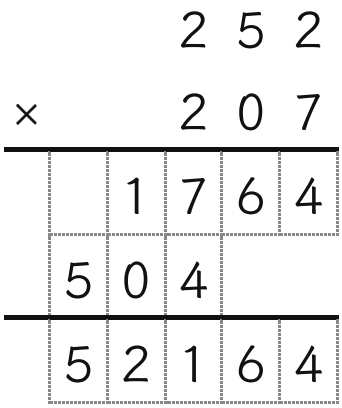

⑥

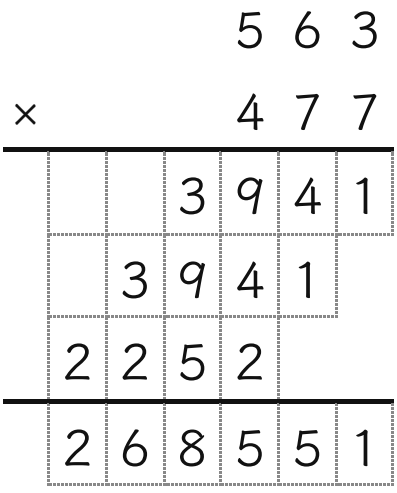

おうちの方へ：つぎの1まいの えらびかた（めやす）

◎	6問以上 正解で、ひとりで止まらずにできた	同じ段をもう1枚。2枚つづけて◎なら次の段へ
○	5問くらい正解、または時間がかかった・少し手伝った	同じ段をもう1枚（別の番号）
△	半分くらい、または手が何度も止まる・いやがる	1つ前の段へ。らくにできる所から始めるのが近道です

めやすの時間は参考です。はからなくてもかまいません。番号（M4-KA01-055）を入れると、同じプリントと答えをいつでも出せます。

◎が 2まい つづいたら かけざんは ごうかく！　／　○ → もう1まい　／　△ → M3-KA07 に もどる

つぎの プリントは ここから

digitalkodomo.jp 学びラボ　けいさんプリント