M4-KA01 さんすう 3けた×3けたの
ひっ算

なまえ

がつ　にち

かかった じかん　ふん
めやす 12ぷん

○の かず　／6

ひっ算で 計算しましょう。

①

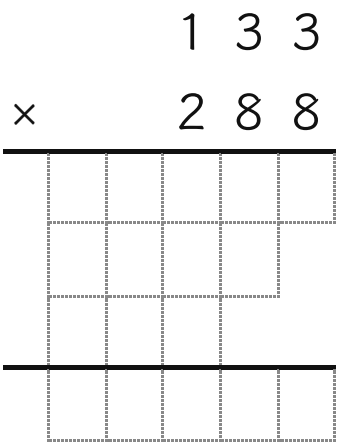

②

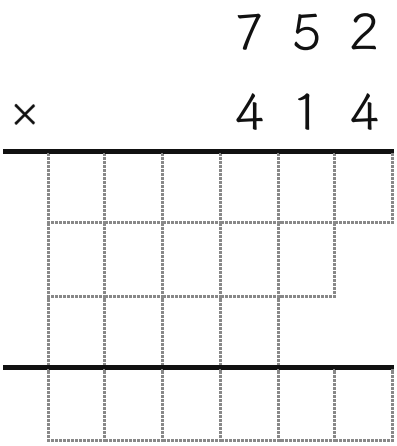

③

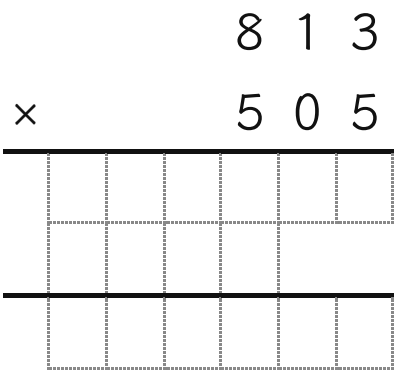

④

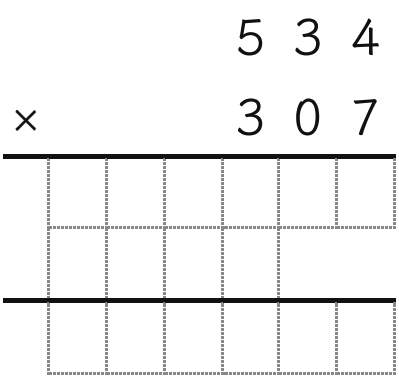

⑤

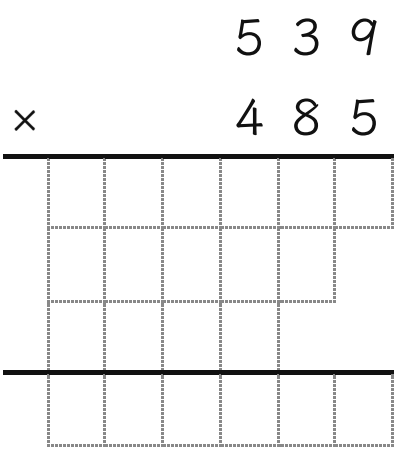

⑥

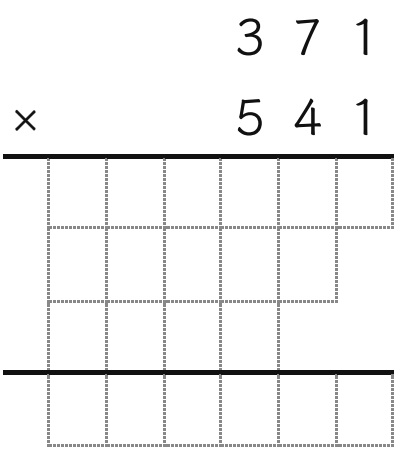

◎が 2まい つづいたら かけざんは ごうかく！　／　○ → もう1まい　／　△ → M3-KA07 に もどる

わからない ときは
ここを 見よう

digitalkodomo.jp 学びラボ　けいさんプリント

M4-KA01 さんすう 3けた×3けたの
ひっ算

こたえ　M4-KA01-070

ひっ算で 計算しましょう。

①

$$\begin{array}{r} 133 \\ \times\ 288 \\ \hline 1064 \\ 1064\ \ \\ 266\ \ \ \\ \hline 38304 \end{array}$$

②

$$\begin{array}{r} 752 \\ \times\ 414 \\ \hline 3008 \\ 752\ \ \\ 3008\ \ \ \\ \hline 311328 \end{array}$$

③

$$\begin{array}{r} 813 \\ \times\ 505 \\ \hline 4065 \\ 4065\ \ \\ \hline 410565 \end{array}$$

④

$$\begin{array}{r} 534 \\ \times\ 307 \\ \hline 3738 \\ 1602\ \ \\ \hline 163938 \end{array}$$

⑤

$$\begin{array}{r} 539 \\ \times\ 485 \\ \hline 2695 \\ 4312\ \ \\ 2156\ \ \ \\ \hline 261415 \end{array}$$

⑥

$$\begin{array}{r} 371 \\ \times\ 541 \\ \hline 371 \\ 1484\ \ \\ 1855\ \ \ \\ \hline 200711 \end{array}$$

おうちの方へ：つぎの1まいの えらびかた（めやす）

◎	6問以上 正解で、ひとりで止まらずにできた	同じ段をもう1枚。2枚つづけて◎なら次の段へ
○	5問くらい正解、または時間がかかった・少し手伝った	同じ段をもう1枚（別の番号）
△	半分くらい、または手が何度も止まる・いやがる	1つ前の段へ。らくにできる所から始めるのが近道です

めやすの時間は参考です。はからなくてもかまいません。番号（M4-KA01-070）を入れると、同じプリントと答えをいつでも出せます。

◎が 2まい つづいたら かけざんは ごうかく！　／　○ → もう1まい　／　△ → M3-KA07 に もどる

つぎの プリントは ここから

digitalkodomo.jp 学びラボ　けいさんプリント