M4-KA01 さんすう 3けた×3けたの
ひっ算

なまえ

がつ　にち

かかった じかん　ふん
めやす 12ぷん

○の かず　／6

ひっ算で 計算しましょう。

①

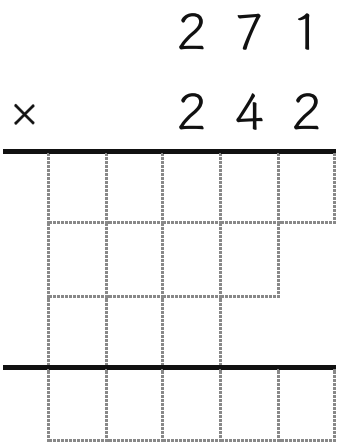

②

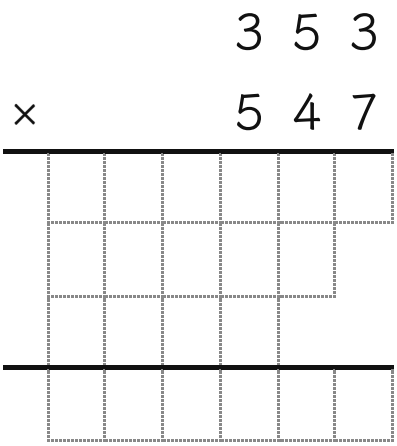

③

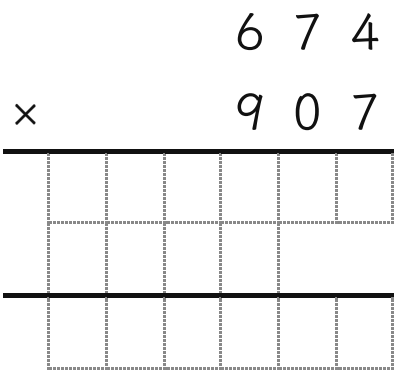

④

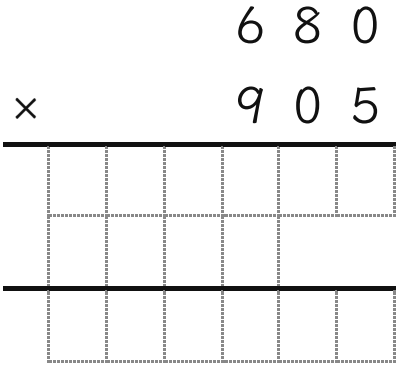

⑤

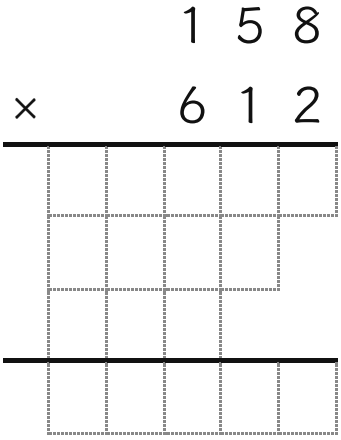

⑥

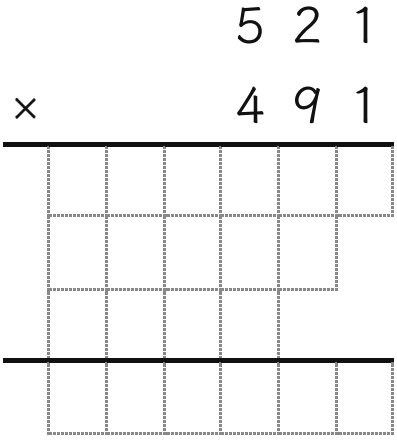

◎が 2まい つづいたら かけざんは ごうかく！　／　○ → もう1まい　／　△ → M3-KA07 に もどる

わからない ときは
ここを 見よう

digitalkodomo.jp 学びラボ　けいさんプリント

M4-KA01 さんすう 3けた×3けたの ひっ算

こたえ　M4-KA01-096

ひっ算で 計算しましょう。

①

$$\begin{array}{r} 271 \\ \times\ 242 \\ \hline 542 \\ 1084 \\ 542 \\ \hline 65582 \end{array}$$

②

$$\begin{array}{r} 353 \\ \times\ 547 \\ \hline 2471 \\ 1412 \\ 1765 \\ \hline 193091 \end{array}$$

③

$$\begin{array}{r} 674 \\ \times\ 907 \\ \hline 4718 \\ 6066 \\ \hline 611318 \end{array}$$

④

$$\begin{array}{r} 680 \\ \times\ 905 \\ \hline 3400 \\ 6120 \\ \hline 615400 \end{array}$$

⑤

$$\begin{array}{r} 158 \\ \times\ 612 \\ \hline 316 \\ 158 \\ 948 \\ \hline 96696 \end{array}$$

⑥

$$\begin{array}{r} 521 \\ \times\ 491 \\ \hline 521 \\ 4689 \\ 2084 \\ \hline 255811 \end{array}$$

おうちの方へ：つぎの1まいの えらびかた（めやす）

◎	6問以上 正解で、ひとりで止まらずにできた	同じ段をもう1枚。2枚つづけて◎なら次の段へ
○	5問くらい正解、または時間がかかった・少し手伝った	同じ段をもう1枚（別の番号）
△	半分くらい、または手が何度も止まる・いやがる	1つ前の段へ。らくにできる所から始めるのが近道です

めやすの時間は参考です。はからなくてもかまいません。番号（M4-KA01-096）を入れると、同じプリントと答えをいつでも出せます。

◎が 2まい つづいたら かけざんは ごうかく！　／　○ → もう1まい　／　△ → M3-KA07 に もどる

つぎの プリントは ここから

digitalkodomo.jp 学びラボ　けいさんプリント