M4-KA01 さんすう 3けた×3けたの
ひっ算

なまえ

がつ　にち

かかった じかん　ふん
めやす 12ぷん

○の かず　／6

ひっ算で 計算しましょう。

①

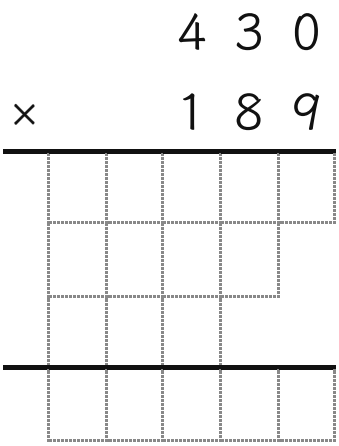

②

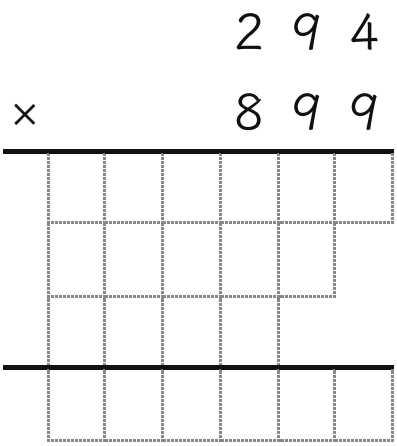

③

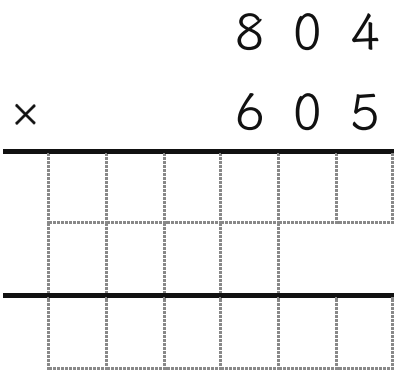

④

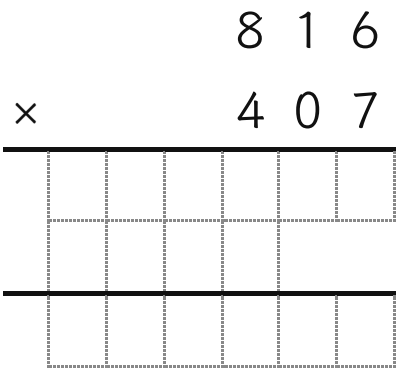

⑤

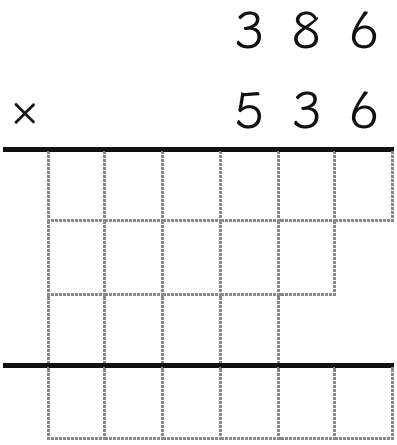

⑥

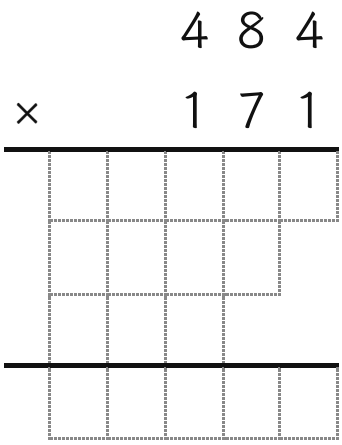

◎が 2まい つづいたら かけざんは ごうかく！　／　○ → もう1まい　／　△ → M3-KA07 に もどる

わからない ときは
ここを 見よう

M4-KA01 さんすう 3けた×3けたの ひっ算

こたえ　M4-KA01-100

ひっ算で 計算しましょう。

①

$$\begin{array}{r} 430 \\ \times\ 189 \\ \hline 3870 \\ 3440 \\ 430 \\ \hline 81270 \end{array}$$

②

$$\begin{array}{r} 294 \\ \times\ 899 \\ \hline 2646 \\ 2646 \\ 2352 \\ \hline 264306 \end{array}$$

③

$$\begin{array}{r} 804 \\ \times\ 605 \\ \hline 4020 \\ 4824 \\ \hline 486420 \end{array}$$

④

$$\begin{array}{r} 816 \\ \times\ 407 \\ \hline 5712 \\ 3264 \\ \hline 332112 \end{array}$$

⑤

$$\begin{array}{r} 386 \\ \times\ 536 \\ \hline 2316 \\ 1158 \\ 1930 \\ \hline 206896 \end{array}$$

⑥

$$\begin{array}{r} 484 \\ \times\ 171 \\ \hline 484 \\ 3388 \\ 484 \\ \hline 82764 \end{array}$$

おうちの方へ：つぎの1まいの えらびかた（めやす）

◎	6問以上 正解で、ひとりで止まらずにできた	同じ段をもう1枚。2枚つづけて◎なら次の段へ
○	5問くらい正解、または時間がかかった・少し手伝った	同じ段をもう1枚（別の番号）
△	半分くらい、または手が何度も止まる・いやがる	1つ前の段へ。らくにできる所から始めるのが近道です

めやすの時間は参考です。はからなくてもかまいません。番号（M4-KA01-100）を入れると、同じプリントと答えをいつでも出せます。

◎が 2まい つづいたら かけざんは ごうかく！　／　○ → もう1まい　／　△ → M3-KA07 に もどる

つぎの プリントは ここから

digitalkodomo.jp 学びラボ　けいさんプリント