M6-BU04 さんすう 積・商の 大きさ・
計算の きまり（分数）

なまえ

がつ　にち

かかった じかん　ふん
めやす 8ぷん

○の かず　／12

□に ＞・＜や 数を 書きましょう。（　）の ある 式は くふうして 計算しましょう。

① $89\times\frac{14}{5}$ □ 89

② $\frac{7}{6}$の 逆数
→ □

③ $(\frac{5}{6}+\frac{4}{9})\times18=$ □

④ $\frac{5}{12}$ の 逆数
→ □

⑤ 1.5の 逆数
→ □

⑥ $(\frac{3}{4}+\frac{1}{6})\times12=$ □

⑦ $68\times\frac{7}{6}$ □ 68

⑧ $(\frac{1}{6}+\frac{2}{9})\times18=$ □

⑨ $16\div\frac{7}{8}$ □ 16

⑩ $9\div\frac{13}{9}$ □ 9

⑪ $90\div\frac{4}{9}$ □ 90

⑫ $37\times\frac{11}{6}$ □ 37

M6-BU04 さんすう 積・商の 大きさ・計算の きまり（分数）

こたえ　M6-BU04-075

□に ＞・＜や 数を 書きましょう。（　）の ある 式は くふうして 計算しましょう。

① $89\times\frac{14}{5}$ $\boxed{>}$ 89

② $\frac{7}{6}$の 逆数 → $\boxed{\frac{6}{7}}$

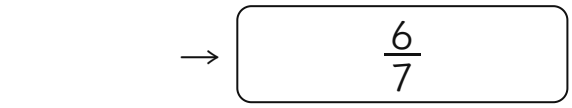

③ $\left(\frac{5}{6}+\frac{4}{9}\right)\times18=\boxed{23}$



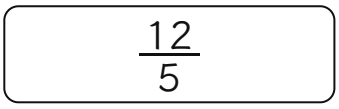

④ $\frac{5}{12}$ の 逆数 → $\boxed{\frac{12}{5}}$

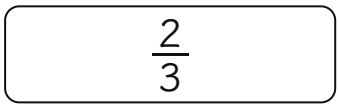

⑤ 1.5の 逆数 → $\boxed{\frac{2}{3}}$



⑥ $\left(\frac{3}{4}+\frac{1}{6}\right)\times12=\boxed{11}$



⑦ $68\times\frac{7}{6}$ $\boxed{>}$ 68

⑧ $\left(\frac{1}{6}+\frac{2}{9}\right)\times18=\boxed{7}$

⑨ $16\div\frac{7}{8}$ $\boxed{>}$ 16

⑩ $9\div\frac{13}{9}$ $\boxed{<}$ 9

⑪ $90\div\frac{4}{9}$ $\boxed{>}$ 90

⑫ $37\times\frac{11}{6}$ $\boxed{>}$ 37

おうちの方へ：つぎの1まいの えらびかた（めやす）

◎	11問以上 正解で、ひとりで止まらずにできた	同じ段をもう1枚。2枚つづけて◎なら次の段へ
○	9問くらい正解、または時間がかかった・少し手伝った	同じ段をもう1枚（別の番号）
△	半分くらい、または手が何度も止まる・いやがる	1つ前の段へ。らくにできる所から始めるのが近道です

めやすの時間は参考です。はからなくてもかまいません。番号（M6-BU04-075）を入れると、同じプリントと答えをいつでも出せます。